56. 法国史学家托克维尔在论述法国大革命时曾指出："人们应当预见，大革命不是由某些集体事件引导，而是由一些抽象的原则和普遍的理论所引导。""抽象的原则和普遍的理论"主要是指

A. 君权神授思想　B. 基督教思想　C. 启蒙思想　D. 马克思主义

57. 2009年7月，某国际机构做出决定，"延长联合国和非盟驻苏丹达尔富尔混合维和部队的任期，以保护达尔富尔地区平民并确保人道主义援救人员的安全"。该机构是

A. 联合国安理会　B. 联合国难民署

C. 国际法院　D. 世界卫生组织

58. 城市市区的气温比郊区高。图11为某城市市区轮廓示意图，该城市夏季午后某时刻气温沿图中虚线所示方向的变化曲线可能为

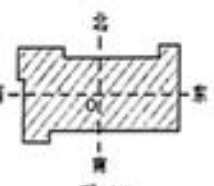

图 11

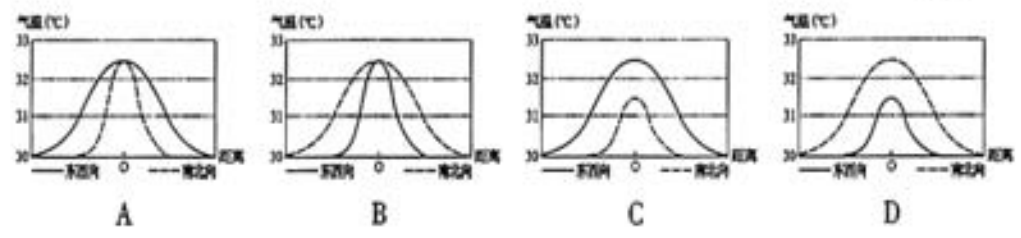

图12是某丘陵区域的地形图，等高线密集表明坡度较大、地势较陡；等高线稀疏表明坡度较小、地势较缓。东部丘陵的森林曾遭受过度采伐。完成59～61题。

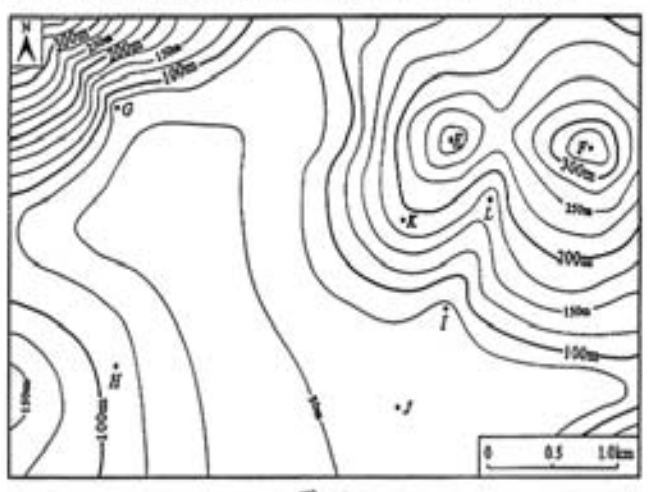

图 12

59. 关于该区域的地形，下列说法正确的是

A. 图中 *E* 处低于 *F* 处　B. 图中 *G* 处高于 *H* 处

C. 图中 *E* 处海拔高度大于300米　D. 由 *E* 处到 *F* 处地势逐渐上升

60. 该区域遭遇较强降雨时，东侧的 *I* 处很快会流下浑浊的径流，而西侧的 G 处则过一段时间才流下相对清澈的径流。造成这种差别的主要原因是两处所在的小流域

A. 岩性不同　B. 海拔高度不同　C. 坡度不同　D. 植被覆盖率不同

61. 土地利用方式与地形坡度等因素密切相关。下列四处最适宜种植农作物的是

A. *E* 处　B. *J* 处　C. *K* 处　D. *L* 处

62. 音程是两个乐音的高低关系，它所包含七音级调式的音级数目为音程的度数，如 $\left[{1 \atop 1}\right.$ 是一度，$\left[{6 \atop 3}\right.$ 是四度。下列音程为八度的是

A. $\left[{3 \atop 2}\right.$　B. $\left[{1 \atop \underset{\cdot}{6}}\right.$　C. $\left[{7 \atop 3}\right.$　D. $\left[{6 \atop \underset{\cdot}{6}}\right.$

用盘状蚊香驱蚊时，为控制蚊香燃烧时间，某同学设计了一金属夹片，安放到预设的蚊香熄灭位置。当燃烧到夹片处时，蚊香就会因热量被夹片快速带走而熄灭(图13)。完成63～64题。

63. 若使金属夹片与蚊香大面积接触，同时还要方便安放，夹片最适合的横截面形状应为

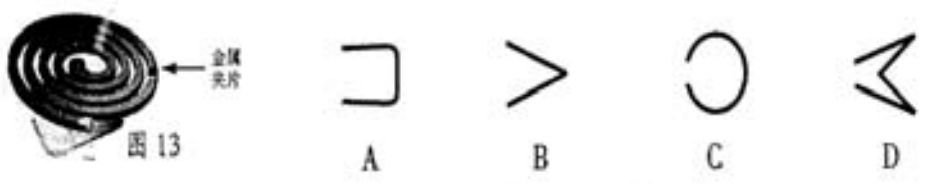

图 13　A　B　C　D

64. 若按照质量轻、易加工的原则来选材，最适合制作金属夹片的是

A. 铁片　B. 钢片　C. 铝片　D. 铅片

65. 2012年6月8日，科学家在某地观测一物体的日光成影状况，根据其影长的变化绘成示意图(图14)。据图判断，该地位于

A. 北极圈内　B. 南极圈内

C. 北回归线　D. 南回归线

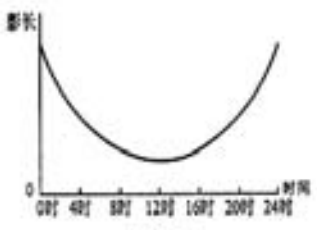

图 14

66. 全球定位系统(GPS)技术可用于定位、导航。若在甲、乙两地 GPS 接收机显示的经纬度坐标分别为北纬36°08′27″、东经118°54′08″和北纬34°08′09″、东经116°53′34″，则甲在乙的

A. 东南方　B. 东北方　C. 西南方　D. 西北方

语音邮件是语音和电子邮件的结合，可以通过电子邮件传递声音。完成67～68题。

67. 从发送方用计算机录制声音文件到接收方用计算机播放声音，信息处理步骤的正确顺序是

①数据传输　②数据压缩　③数据解压　④模拟信号转为数字信号　⑤数字信号转为模拟信号

A. ④②①③⑤　B. ⑤③①②④　C. ⑤②①③④　D. ④③①②⑤

68. 语音文件下载后，接收方用计算机播放声音必需的是

A. 网卡　B. 声卡　C. 交换机　D. 麦克风

69. 氢气是目前世界上最有希望替代化石燃料的能源之一。以氢气为燃料的优点是

①燃烧后无灰渣　②燃烧后无有害气体产生　③生产成本比化石燃料低廉　④储存、运输安全方便

A. ①②　B. ③④　C. ①③　D. ②④

70. 从甲市中学到乙市火车站，市内可乘公共汽车或出租车，两市之间可乘汽车或火车(表2)。若上午9点从甲市中学出发，为尽快到达乙市火车站，在时间优先、兼顾费用的原则下，最优化的乘车组合是

乘车区间	交通工具	发车时间/间隔	所用时间(分钟)	票价(元)
甲市中学—甲市汽车站	公共汽车	5分钟一班	10	2
	出租车	随时发车	6	10
甲市中学—甲市火车站	公共汽车	5分钟一班	15	2
	出租车	随时发车	10	10
甲市汽车站—乙市火车站	汽车	9:30;10:00	60	30
甲市火车站—乙市火车站	火车	10:00	40	35

表 2

A. 公共汽车—汽车　B. 出租车—汽车　C. 公共汽车—火车　D. 出租车—火车

第二部分　共15题，每题2分，共30分。在每题给出的四个选项中，有的只有一个选项符合题目要求，有的有多个选项符合题目要求，全部选对的得2分，选对但不全的得1分，有选错的得0分。

71. 世界是普遍联系的，事物的联系具有多样性。下列成语体现因果联系的是

A. 莺歌燕舞　B. 龙腾虎跃　C. 水涨船高　D. 唇亡齿寒

72. 图15是古文字"马"发展演变的过程，下列相关表述正确的是



图 15

A. "马"字经历了由象形到符号化、由不定型到定型的演变

B. 甲骨文"马"字线条瘦劲，风格质朴

C. 金文是目前能够见到的最早成系统的汉字

D. 小篆字形规范，是秦朝通行的标准文字

73. 古巴比伦《汉谟拉比法典》规定："如果一个人弄伤了贵族的眼睛，那么贵族依法可以弄伤这个人的眼睛……如果任何人的奴隶打了自由民出身的人，处割耳之刑。"上述规定反映了该法典的

A. 同态复仇原则　B. 阶级歧视原则　C. 抑强扶弱原则　D. 保护商业财产原则

74. 近代诗人褚维垲在诗中说："都门被困御园火，五口通商弭兵祸。骎骎自海达长江，惟所欲为无不可。"对该诗理解正确的是

A. "御园火"是指英法联军火烧圆明园　B. "五口通商"开始于甲午中日战争后

C. 该诗描述了近代列强对中国的侵略　D. 该诗反映了中国半殖民地的社会性质

75. 股份有限公司通常具有健全的法人治理结构，其决策机构是

A. 股东大会　B. 监事会

C. 总经理　D. 董事会

76. 图16是世界自然基金会(WWF)发布的招贴，该招贴

A. 采用对称构图以营造和平美好的气氛

B. 运用了图形替代、反复等创作手法

C. 形象鲜明醒目，视觉冲击力强

D. 彰显了保护珍稀物种的主题

图 16

77. 制作面包需要面粉、糖和酵母等原料，有时还要加入淀粉酶。下列说法正确的是

A. 加入淀粉酶有利于酵母的发酵　B. 淀粉酶是酵母发酵的主要原料

C. 用沸水溶解淀粉酶会使其失活　D. 淀粉酶能够促进蛋白质的分解

78. 在铅球比赛中，参赛运动员的动作与铅球落点示意图如下，成绩有效的是



A　B　C　D

国家教育部批准的普通本科高校

山东英才学院简介

山东英才学院创建于1998年，2008年被教育部批准升格为普通本科院校。在各级党委、政府、教育主管部门的关怀下，学院取得了健康、快速发展。

学校现占地1900亩，建筑面积49万平方米，资产总值10亿元，设有19个二级学院，拥有60余个本、专科专业，在校生3.6万人，居全国民办高校首位。

学校坚持"名家治校、名师执教"的办学方略，建立了一支专兼职相结合的高水平师资队伍。现有教职工1400余人，专职教师840余人，其中教授、副教授240余人，博士、硕士400余人，"双师型"教师占55%；享受国务院特殊津贴专家5人，山东省有突出贡献的中青年专家1人；国家教学名师2人，省级教学名师4人。

学校重视内涵建设，取得明显成效。培育了全国民办高校第一门国家精品课、唯一的国家教学名师和国家本科教学团队；拥有省级实验教学示范中心、省级人才培养模式创新实验区、省级特色人才培养基地，省级教学团队，2个省级示范专业，9个省级特色专业、28门省级精品课；获得6项省级教学优秀成果奖。承担成功山东省民办高校唯一的软科学研究基地，并入选教育部"应用科技大学改革试点战略研究"项目组，是省学位办确定的山东省首批研究生联合培养基地。

学校认真履行社会服务职能，有效推动地方经济社会发展。与山东省水利厅合作，承担了库区移民技能培训任务；和鲁商集团合作创办了英才·领航双语幼儿园。成立了"老年服务与管理学院"，争取在老龄产业管理人才、老年保健护理人才培养等方面做出努力。

学校人才培养质量逐步提升。学生在全国大学生数学建模比赛、全国大学生企业经营管理沙盘模拟大赛、全国挑战杯大赛等获得优异成绩，获国家一等奖十余项。毕业生就业成绩突出，毕业生就业率一直保持在92%以上。被教育部、省教育厅等评为"全国毕业生就业典型经验高校50强"(全国民办高校唯一)、"山东省高校毕业生就业工作先进集体"、"山东省大学生创业示范院校"。迄今，学校已为社会培养了7万余名高级应用型人才，为地方经济建设和社会发展做出了贡献。

学校先后被国家教育部、民政部、人社部、山东省人社厅、教育厅、高校工委等授予"全国先进民间组织"、"全国高等教育自学考试先进集体"、"全国民办非企业单位自律与诚信建设先进单位"、"全国就业与社会保障先进单位"、"山东省民办教育先进集体"、"山东省德育工作优秀高校"等称号。学院稳居《中国民办高校排行榜》全国前三位。

学校制定了未来十年事业发展规划，确立了创建中国高水平民办大学的总体发展目标，力争为省市经济建设和社会发展做出更大贡献。

咨询电话：0531—88253000
网　　址：www.ycxy.com

国办高校　山东省高等教育技能型名校工程首批立项建设单位　山东省职业教育先进集体　山东省精神文明单位

济南工程职业技术学院

JINAN ENGINEERING VOCATIONAL TECHNICAL COLLEGE

济南工程职业技术学院是经山东省人民政府批准，面向全国招生的公办全日制普通高等院校。学院自成立以来，传承"以事业凝聚人心"干事创业的光荣传统，秉承"崇德尚技，知行合一"的办学理念，坚持"文化兴院，特色强院"的办学方针，以"崇德求真，精工善艺"为校训，逐步形成了"尚德敬业"的校风，"精艺善教"的教风和"勤学善技"的学风。目前已发展成为一所主要面向建筑、物流、机电三大行业培养高素质、高技能应用型人才的高等职业技术学院。学院是山东省高等教育技能型名校首批立项建设单位、山东省职业教育先进集体、山东省精神文明单位、山东省花园式单位、山东省校园精神文明建设、教育建设优秀单位。

学院位于济南经十东路6088号。学院周边风景宜人，交通便利，分布着十余所高等院校。校园环境整洁优美，文化氛围浓厚，是广大青年学子求学的理想之地。学院占地749亩，拥有满足各专业教学需要的实验实训室、多媒体教室、计算机网络中心、图书信息楼等现代化教学设施，宽带网络覆盖全院。

学院拥有一支结构合理、勇于创新的"双师"结构教师队伍，具有硕士及博士生以上学历占专任教师总数的41%，副高以上职称的教师占专任教师总数的24%，"双师型"素质教师占专任教师总数的44%，同时聘请一批既有理论水平又有实践经验的专家、工程技术人员、能工巧匠担任兼职教师。

学院专业设置主动适应区域产业结构升级需要，注重内涵发展，形成了以建筑工程技术专业为龙头，工程造价、基础工程技术、建筑设备工程技术为依托的建筑类专业群；以现代物流技术专业为龙头，形成了物流品检验与服务、物流品设计为依托的物流类专业群；以机电一体化技术专业为龙头，形成了数控技术、建筑电气工程技术、汽车检测与维修技术为依托的机电类专业群；涵盖建筑工程、城市建设、物流服务、机电工程、管理工程、经济管理、艺术设计等七个专业大类38个专业。拥有4个省级教学团队，6个省级特色专业，17门省级精品课程。

学院注重校企合作，本着"相互促进，合作共赢"的原则，与152个行业企业建立了紧密的合作关系。物流类专业群与省内十余家大型物流企业联合成立了物流职业教育校企合作联盟；建筑类专业群与国家特一级资质天齐集团成立了"天齐合作实验实训室"；机电类专业群与全国百强钢材营销企业山东普延物流发展有限公司合作成立了济南工程职业技术学院普延学院。形成了"合作育人，利益共享"的办学体制，同时与政府部门合作成立了济南市职业教育研究所，以加强职业教育的研究与实践。

学院人才培养注重工学结合，突出实践应用能力培养，实行双证书制度，毕业生广泛就业于建筑工程、城市建设、国际航运、服务物流、机电工程、计算机、新闻、旅游等企事业单位，多年来就业率始终保持在95%以上，在相关行业中享有良好的声誉。

学院始终坚持"从严治校、质量第一"的办学原则和"德能并重，知行合一"的办学理念，"让学生满意，让家长放心"是我们的郑重承诺。前进中的济南工程职业技术学院，将和广大考生一起以昂扬的姿态，矫健的步伐共同迈向辉煌的未来。

2013年学院普通高职专科招生计划2800人，其中山东省招生2575人，18个省外省市招生125人。

具体报考事宜请向学院咨询或浏览学院招生网站。

联系方式

学院地址：济南市经十东路6088号

邮编：250200

办公电话：0531—[illegible]

招生咨询电话：0531—81298001　81298002　81298003　81298004

学院网址：http://www.jngcxy.com